به نام ایزد دانا

نام و نام خانوادگی ..... . آزمون ریاضی از فصل ۴

۱ جدول را کامل کنید .

جمع	ضرب	شکل
		
	۲ ×۵ =	
۷ + ۷ =		

۲ روی محور نشان دهید ۵ × ۴ = ۴ × ۵

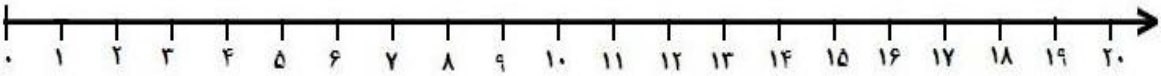

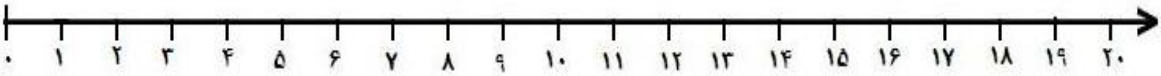

۱۸ ÷ ۶ = ...

۳ خطوط موازی هر شکل را هم رنگ کن

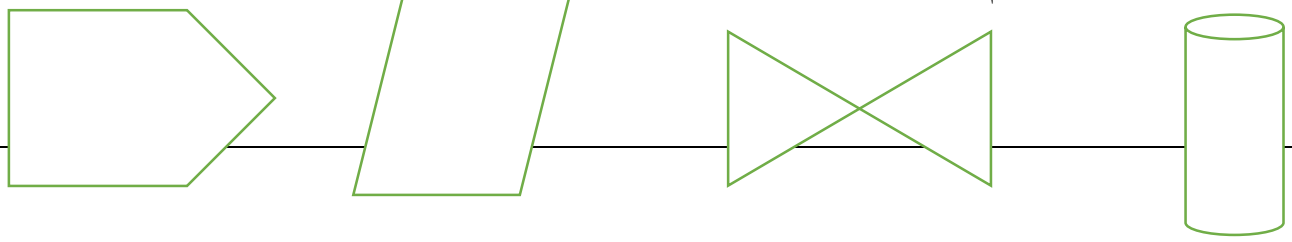

۴	پاسخ سوالات را با هر روشی که دوست داریدپیدا کنید .(شکل ، محور و....) هر مسلمان در هر روز ۵ نوبت نماز میخواند . در یک هفته چند نوبت نماز می خواند؟ یکی از بچه ها می خواهدبا ۴۵ دانش آموز گروه های ۵ نفره تشکیل بدهد . چند گروه تشکیل می شود.؟ علی ۸ سال سن دارد و پدرش ۴۰ سال . سن پدر علی چند برابر سن علی است؟ هر دست لیوان ۶ لیوان است . ۴ دست لیوان چند لیوان است؟ هشت هفته چند روز است ؟
۵	برای شکل زیر یک ضرب و دو تقسیم بنویسید ..... × .....=. .... ÷ ..... = ... ÷ ..... = ...

۶ جاهای خالی را کامل کنید.

۸ × ..... . = ۹ × ۸

۷ × ۵ =(۴× ۵) + (.....× ۵) = ... × ..... = ...

(۵ × ۶) (۲ + ۳) = ... − . ..... = ...

−

(۱۴ ۶) × (۴ + ۵) = ... × ..... = ...

−

۷ در الگوی شمارش ۸ تا ۸ تا بعد از عدد ۵۶ کدام عدد قرار می گیرد؟

۸ جاهای خالی را کامل کن .

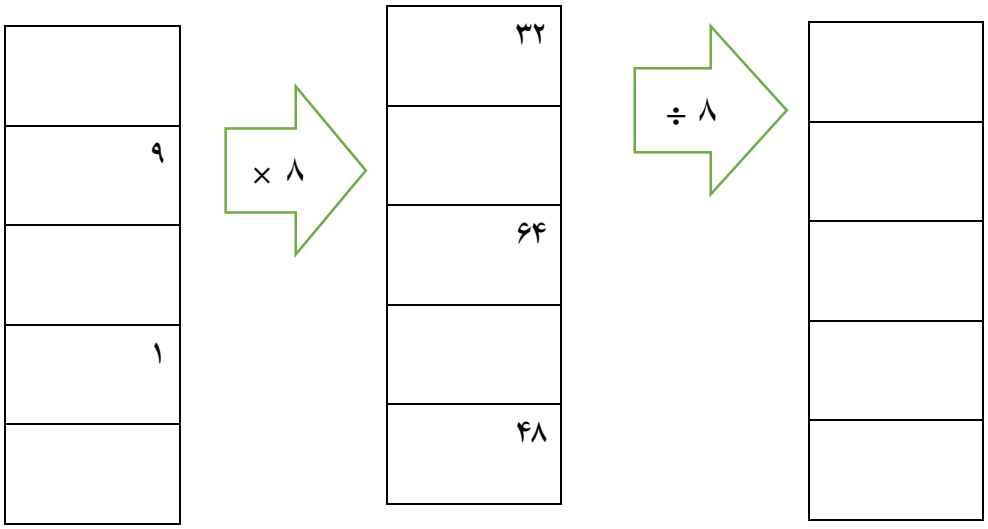

۹ دیروز امیر حسین در یک مهمانی دور یک میز ۹ نفره نشسته بود که در آن برای پذیرایی از مهمانها در هر بشقاب ۳ نارنگی ، یک سیب زرد و یک سیب سرخ گذاشته بودند . امیر حسین تعداد میوه های آن میز را حساب کرد . به نظر شما امیر حسین با استفاده از کدام روش زیر می توانست این کار را انجام دهد؟

الف) ۴۵ = (۱ × ۹) + (۱ × ۹) + (۳ × ۹)

ب) ۴۵ = (۲ × ۹) + (۳ × ۹)

ج) ۴۵ = ۵ × ۹

د) با هر سه روش

بچه های تلاشگر روز های شاد و خوبی داشته باشید